www.xtrapapers.com

Rewarding Learning

Uimhir Lárionaid	
71	

Uimhir Iarrthóra

General Certificate of Secondary Education
2011

Tíreolaíocht

Aonad 1:
An Domhan Nádúrtha Againn Á Thuiscint

Bonnsraith

[GGG11]

DÉ LUAIN 13 MEITHEAMH, MAIDIN

GGG11

AM

1 uair 30 nóiméad.

TREOIR D'IARRTHÓIRÍ

Scríobh d'Uimhir Lárionaid agus d'Uimhir Iarrthóra sna spásanna chuige sin ag barr an leathanaigh seo.
Scríobh do fhreagraí sna spásanna chuige sin sa scrúdpháipéar seo.
Freagair **gach ceann** de na **3** cheist.
Tá léarscáil Shuibhéireacht Ordanáis ar fáil duit le húsáid i **gCeist 1**.
Ná scríobh do fhreagraí ar an léarscáil seo.

EOLAS D'IARRTHÓIRÍ

Is é 100 an marc iomlán don pháipéar seo.
Léiríonn figiúirí idir lúibíní ar thaobh na láimhe deise de leathanaigh na marcanna atá ag dul do gach ceist nó do gach cuid de cheist.
Measúnófar caighdeán na cumarsáide scríofa sna ceisteanna seo: **1(f)(i)**, **1(g)** agus **2(e)(i)**.

Don Scrúdaitheoir amháin	
Uimhir Ceiste	Marcanna
1	
2	
3	

Marc Iomlán	

www.xtrapapers.com

Scrúdaitheoir Amháin	
Marcanna	Athmharc

Freagair **gach ceann** de na **3** cheist.

Téama A: An Tírdhreach Dinimiciúil

1 **(a)** Déan staidéar ar an sliocht Suirbhéireacht Ordanáis de Blakeney Point, Sasana, agus freagair na ceisteanna a leanann.

(i) Luaigh airde an talaimh ar an A149, príomhbhóthar, ag TE 083438.

_____ méadar [1]

(ii) Luaigh an fad dronlíneach ón Pharcáil ag TE 049453 go barr Pits Point ag TE 004456.

_____ km [2]

(iii) Cuir líne faoin treo a bhfuil Blakeney Point (TE 0046) ó Weybourne (TE 1142).

soir ó dheas **soir ó thuaidh** **siar ó thuaidh** **soir** [1]

(iv) Tá an-dúil ag turasóirí sa cheantar seo. Meaitseáil na gníomhaíochtaí seo a leanas leis an suíomh acu. Tá ceann amháin acu déanta.

Gníomhaíocht	**Suíomh**
Súgradh ar thrá ghainimh	1043
Triail a bhaint as an anaclann dúlra	1342
Conair foraoise a leanúint	1643
Breathnú ón ionad amhairc	0544
Campáil	1141

[4]

www.xtrapapers.com

Scrúdaitheoir Amháin	
Marcanna	Athmharc

(b) **(i)** Sampla de ghob is ea Blakeney Point TE 0046. Taispeánann **Fíor 1** an gob ag Blakeney Point. Agus léarscáil na Suirbhéireachta Ordanáis ina cuidiú agat, comhlánaigh an eochair trí na litreacha ar **Fíor 1** a mheaitseáil leis an lipéad ceart ar an eochair.

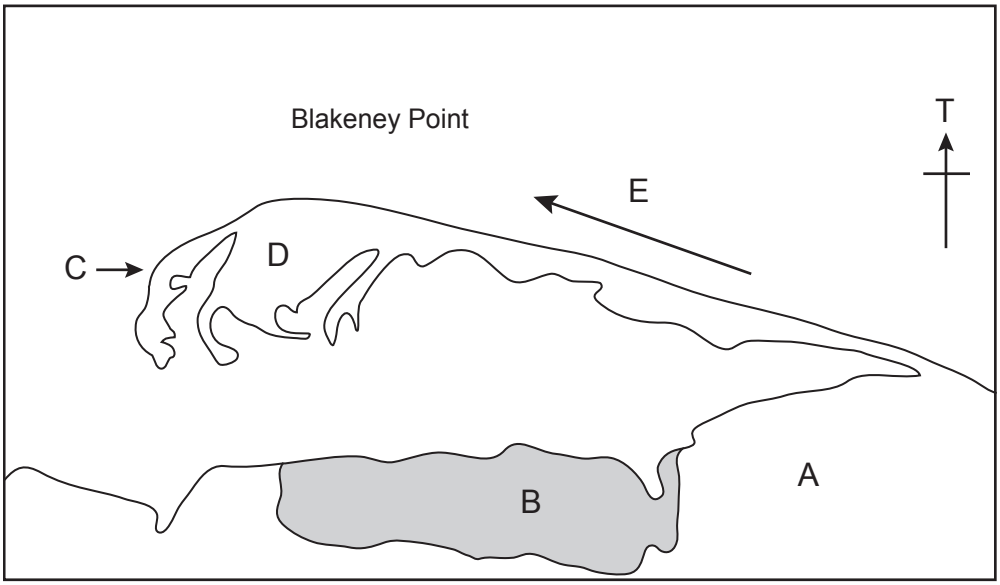

Fíor 1

Eochair	
Litir ar Fíor 1	**Lipéad**
	Treo an tSíobtha feadh Cladaigh
	Mórthír
D	Dumhcha
	Trá scaineagáin
	Riasca Goirt

[4]

(ii) Sil-leagan is cúis le gob. Luaigh ciall an téarma **sil-leagan**.

_____

_____

_____ [2]

www.xtrapapers.com

Scrúdaitheoir Amháin	
Marcanna	Athmharc

(iii) Tá dhá phríomhchineál toinne ann – tonn tógála agus tonn scriosach. Críochnaigh na habairtí seo a leanas le comparáid a dhéanamh idir tonnta tógála agus tonnta scriosacha. Roghnaigh na focail as an liosta thíos.

tógála **scriosach(a)** **creimeadh** **tógáil** **níos lú** **níos mó**

1. I gcás tonnta _____, bíonn an chúlchaise i bhfad níos láidre ná an borruisce.

2. Bíonn tonnta _____ íseal agus i bhfad óna chéile.

3. Bíonn _____ tonnta scriosacha ann ná tonnta tógála.

4. Bíonn an trá á _____ ag tonnta tógála. [4]

(iv) Is mar gheall ar chreimeadh a bhíonn aillte cósta á bhfoirmiú. Ainmnigh **dhá** phróiseas a mbíonn an cósta á chreimeadh acu.

_____

_____ [2]

www.xtrapapers.com

Scrúdaitheoir Amháin	
Marcanna	Athmharc

(c) Déan staidéar ar **Fíor 2** a thaispeánann grianghraif de ghradhana feadh chósta Sheringham idir TE 1543 agus TE 1643.

© *www.walkingbritain.co.uk*

Fíor 2

(i) Cuir síos ar an dóigh a mbíonn an modh seo ag feidhmiú leis an chósta a chosaint.

_____

_____

_____

_____

_____ [3]

(ii) Maidir le ceantar ainmnithe in Éirinn nó sa Bhreatain Mhór a ndearna tú staidéar air, cuir síos ar mhodh **amháin** eile a bhíonn in úsáid le himeallbhord a chosaint agus luaigh a inbhuanaithe atá sé mar mhodh.

Ceantar _____ [1]

Modh _____

_____

_____

_____

_____

_____ [4]

www.xtrapapers.com

Scrúdaitheoir Amháin	
Marcanna	Athmharc

(d) Rinne mic léinn staidéar allamuigh ar abhainn i dTuaisceart Éireann. Déan staidéar ar **Fíor 3** ina léirítear meánmhéid na bpúróg ag gach suíomh staidéir.
Freagair na ceisteanna a leanann.

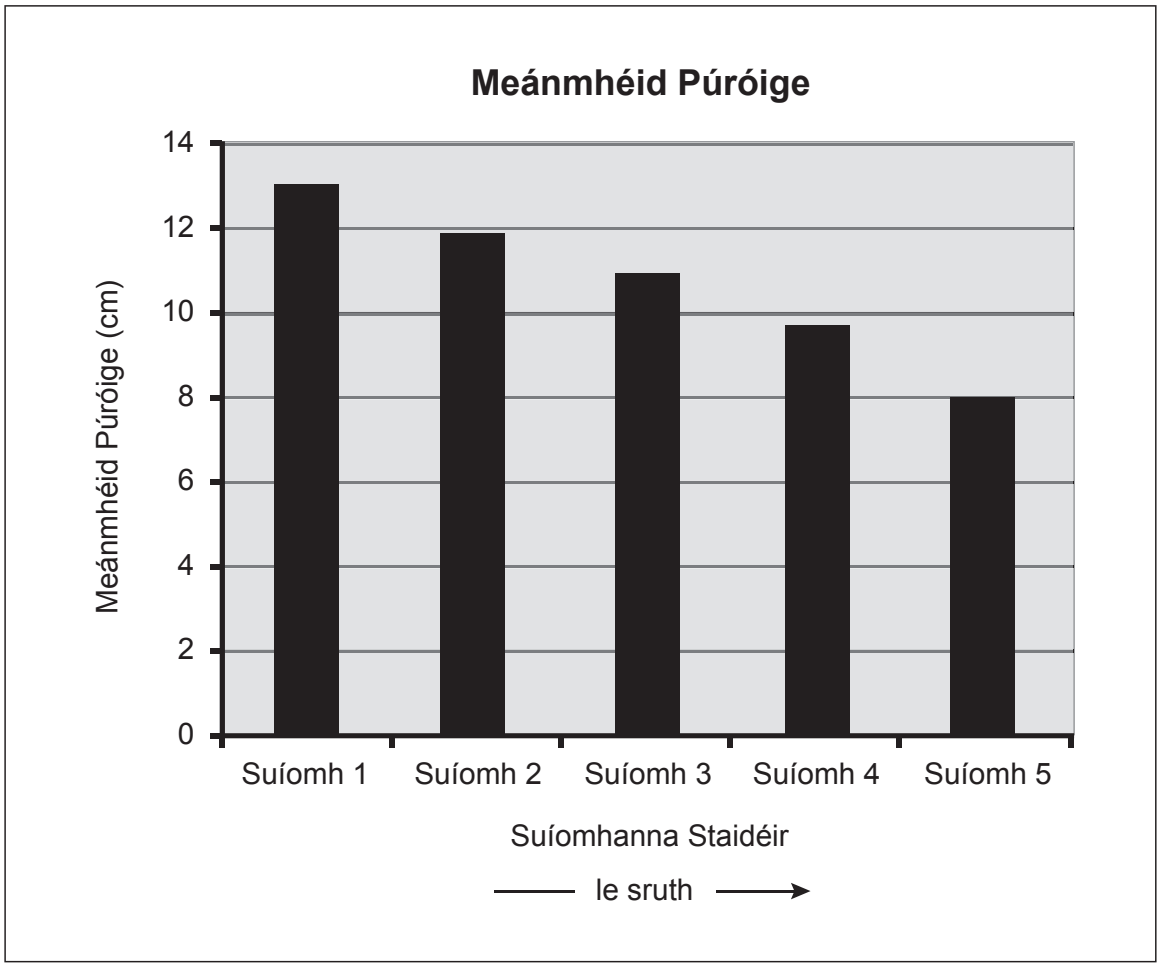

Fíor 3

(i) Agus **Fíor 3** in úsáid agat, comhlánaigh **Tábla 1**.

Tábla 1

	Suíomh 1	**Suíomh 2**	**Suíomh 3**	**Suíomh 4**	**Suíomh 5**
Meánmhéid púróige (cm)	13	11.75	11	9.5	

[1]

(ii) 1. Cuir síos ar na hathruithe ar mhéid na bpúróg le sruth.

_____

_____

_____ [2]

www.xtrapapers.com

Scrúdaitheoir Amháin	
Marcanna	Athmharc

2. Mínigh cad chuige a dtarlaíonn an t-athrú seo. Luaigh fáth **amháin** i do fhreagra.

_____

_____

_____

_____

_____ [3]

(e) Déan staidéar ar **Fíor 4** a thaispeánann sceitse d'eas. Freagair an cheist a leanann.

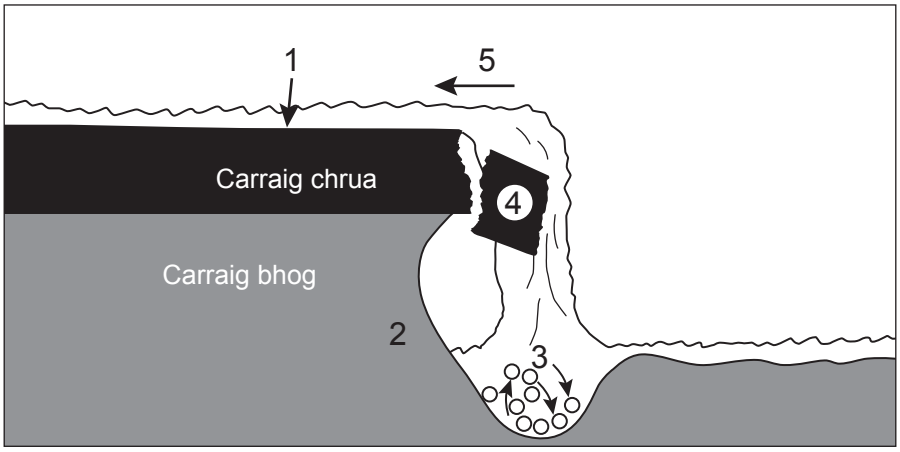

Foinse: Príomhscrúdaitheoir

Fíor 4

Comhlánaigh **Tábla 2** tríd an ráiteas ceart a mheaitseáil leis an uimhir ar **Fíor 4**. Déanfar foirmiú easa a mhíniú ar an dóigh seo. Tá ceann amháin acu déanta.

Tábla 2

Ráiteas	Uimhir ar Fíor 4
Scéimhghearradh mar gheall ar charraig bhog a bheith á creimeadh	
Titeann an charraig isteach mar gheall ar scéimhghearradh	
Bíonn an abhainn ag sreabhadh thar chiseal de charraig chrua	
Bíonn poll easa á fhoirmiú mar gheall ar chreimeadh	
Gluaiseann suíomh an easa ar gcúl	5

[4]

www.xtrapapers.com

Scrúdaitheoir Amháin	
Marcanna	Athmharc

(f) **(i)** Bíonn baol tuile ann in aibhneacha áirthe. Maidir le habhainn ainmnithe **taobh istigh** d'Éirinn nó den Bhreatain Mhór, cuir síos ar chúis **amháin** a mbeadh tuile inti.

Abhainn _____ [1]

_____

_____

_____

_____

_____ [3]

(ii) Caithfear bainistíocht chúramach a dhéanamh ar aibhneacha a mbíonn tuile iontu. Le **Fíor 5** a chomhlánú, déan na straitéisí bainistíochta aibhneacha a shórtáil de réir innealtóireacht chrua nó de réir innealtóireacht bhog.
Tá dhá cheann acu déanta.

Innealtóireacht Bhog		**Innealtóireacht Chrua**
	Dambaí	
←	Crainn a chur	
	Ballaí tuile	
	An abhainn a dhíriú	
	Claífoirt	→
	Criosú úsáid talún	

Fíor 5 [4]

www.xtrapapers.com

(g) Maidir le habhainn ainmnithe taobh amuigh d'Éirinn nó den Bhreatain Mhór, cuir síos ar mhodh **amháin** atá in úsáid le laghdú ar bhaol tuile.

Abhainn _____ [1]

Modh _____

_____

_____

_____

_____ [3]

Scrúdaitheoir Amháin	
Marcanna	Athmharc

www.xtrapapers.com

Téama B: An Aimsir agus an Aeráid Againn ag Athrú

Scrúdaitheoir Amháin	
Marcanna	Athmharc

2 **(a)** Déan staidéar ar **Fíor 6** a thaispeánann na príomhchineálacha scamaill. Freagair na ceisteanna a leanann.

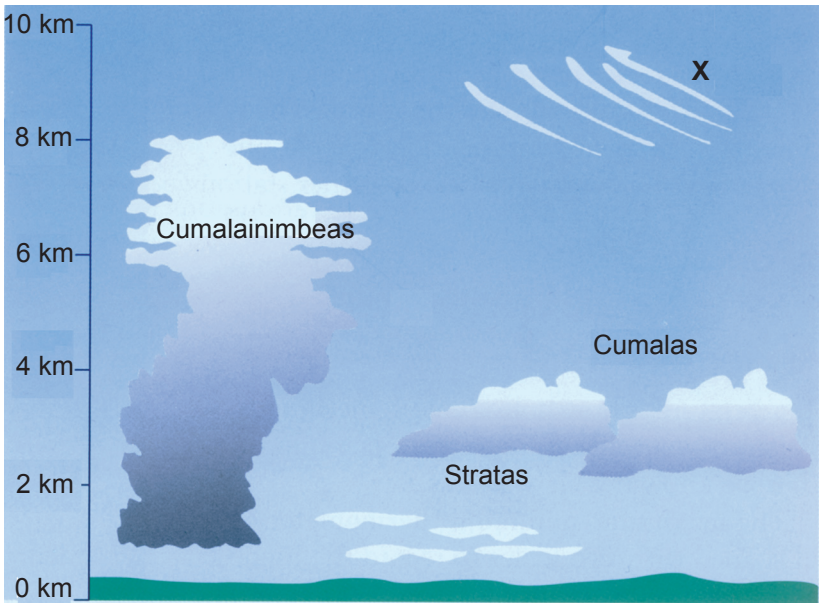

© Geography for CCEA by P Henderson, S Roulston, P Corr, editor K Clarke, published by Hodder Education, 2009. ISBN 9780340984956. Reproduced by permission of Hodder Education.

Fíor 6

(i) Ainmnigh an cineál scamaill atá ag **X**.

_____ [1]

(ii) Luaigh an cineál scamaill a bhaineann le stoirmeacha toirní.

_____ [1]

www.xtrapapers.com

Scrúdaitheoir Amháin	
Marcanna	Athmharc

(b) Déan staidéar ar **Fíor 7** a thaispeánann méadar báistí.

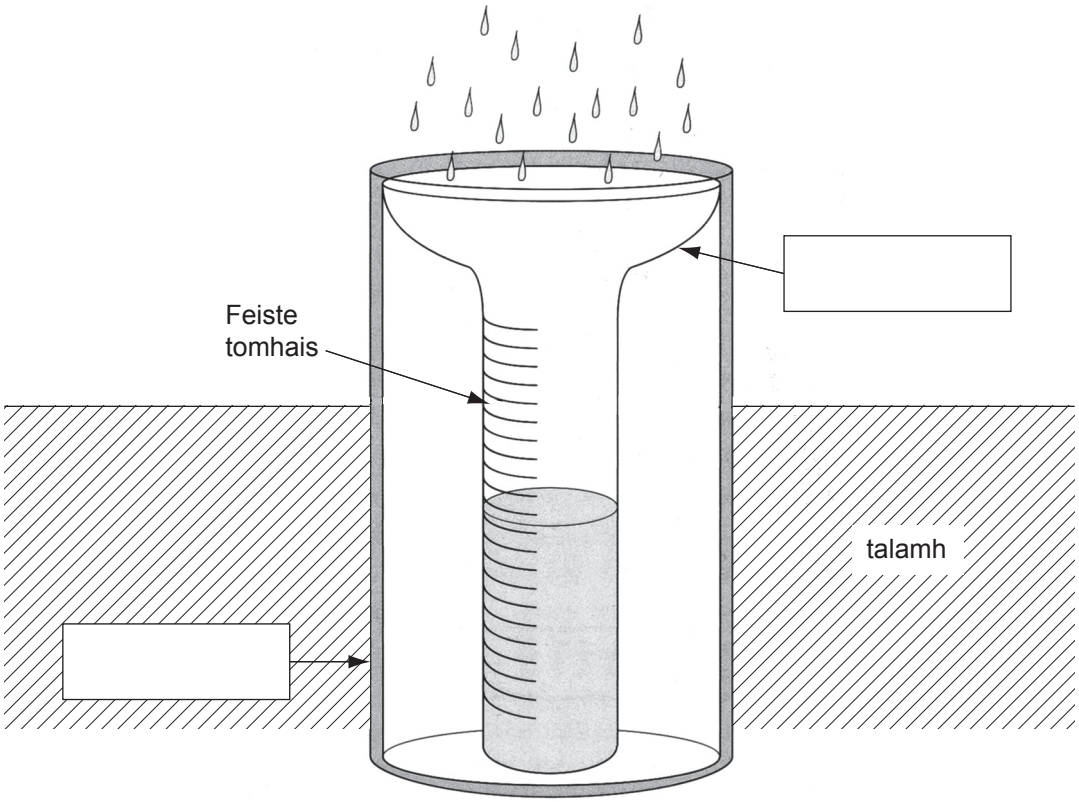

© Geography for CCEA by P Henderson, S Roulston, P Corr, editor K Clarke, published by Hodder Education, 2009. ISBN 9780340984956. Reproduced by permission of Hodder Education.

Fíor 7

(i) Comhlánaigh an léaráid trí na lipéid seo a leanas a chur isteach. Tá ceann amháin acu déanta.

- Tonnadóir
- Sorcóir [2]

(ii) Caithfear an méadar báistí a chur i bhfad ar shiúl ó fhoirgnimh agus ó chrainn. Mínigh cad chuige.

_____

_____

_____

_____

_____ [3]

www.xtrapapers.com

Scrúdaitheoir Amháin	
Marcanna	Athmharc

(c) Déan staidéar ar **Fíor 8** a thaispeánann faisnéis faoi chóras aimsire. Freagair na ceisteanna a leanann.

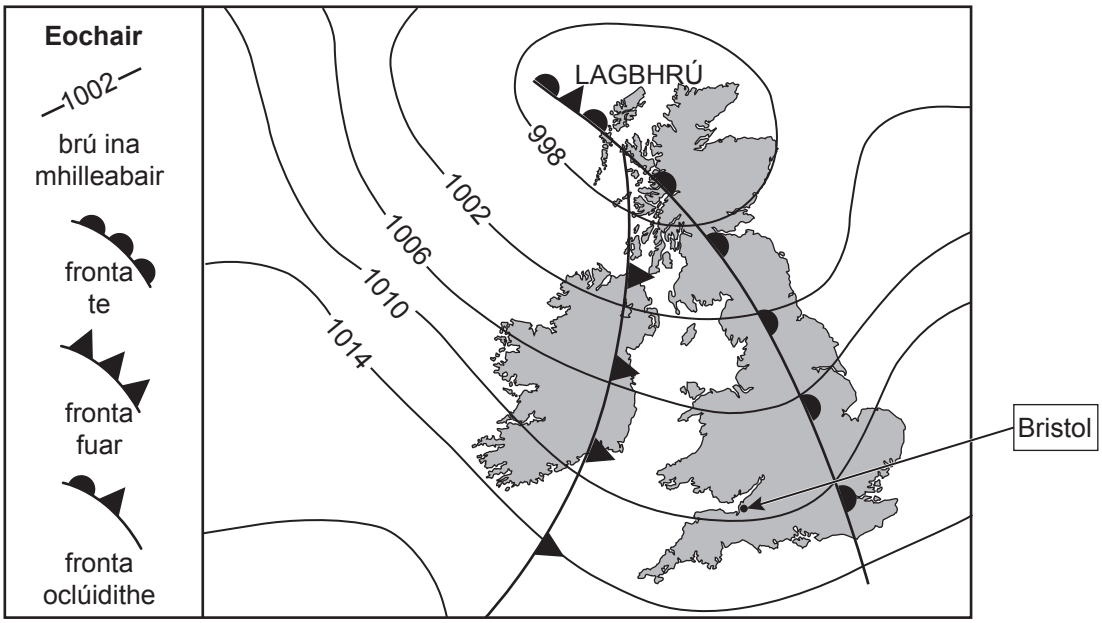

Fíor 8

(i) Ainmnigh na línte ar an léarscáil aimsire seo a mbíonn áiteanna a bhfuil an brú céanna iontu á nascadh le chéile acu?

_____ [1]

(ii) Ainmnigh an córas aimsire atá lonnaithe os cionn na hÉireann agus na Breataine Móire. Cuir líne faoi do fhreagra sa liosta thíos.

Frithchioclón **Fronta** **Lagrach** [1]

www.xtrapapers.com

Scrúdaitheoir Amháin	
Marcanna	Athmharc

(iii) Beidh an teocht in Bristol ag athrú de réir mar a bhíonn an córas aimsire seo ag dul thart.

1. Cuir síos ar cad é mar a bheidh an teocht ag athrú.

_____ [1]

2. Mínigh cad chuige a mbeidh an teocht ag athrú.

_____

_____

_____

_____

_____ [3]

www.xtrapapers.com

Scrúdaitheoir Amháin	
Marcanna	Athmharc

(d) Bíonn tionchar ag an aimsir ar dhaoine agus ar an gheilleagar araon. Comhlánaigh **Tábla 3** trí Daoine nó Geilleagar a scríobh sa cholún deiridh. Tá ceann amháin acu comhlánaithe. [3]

Tábla 3

Gné aimsire	**Tionchar**	**Daoine** nó **Geilleagar**
gaotha láidre *© Reuters/Henry Romero 2 September 2009*	Is féidir leo a bheith ina gcúis le tonnta arda agus le mórtas farraige a gcuirfí seirbhísí farantóireachta ar ceal dá mbarr. De thoradh air seo, ní féidir earraí a iompar go dtí na siopaí.	
gné na haimsire aimsir the ghrianmhar	Ardaíonn an teocht sa dóigh go mbíonn méadú ar dhíolacháin earraí amhail uachtar reoite agus beárbaiciúnna.	Geilleagar
sioc *© Darren Ciolli-Leach*	Sa gheimhreadh cuidíonn an sioc leis an ithir a bhriseadh, rud a fhágann go mbíonn sé níos saoire goirt a shaothrú i dtús an earraigh.	
báisteach throm *© FreeFoto.com Ltd*	Is féidir go n-éireoidh leibhéal an uisce in aibhneacha mar gheall uirthi agus go rachaidh an t-uisce thar bhruacha na n-aibhneacha amach, agus isteach i dtithe agus i ngairdíní.	

www.xtrapapers.com

Scrúdaitheoir Amháin	
Marcanna	Athmharc

(e) Is cúis nádúrtha le hathrú aeráide í gníomhaíocht bholcánach.

© U S Geological Survey/Jack Lockwood

Fíor 9 Bolcán ag brúchtadh san Indinéis

(i) Mínigh cad é mar a d'athródh an aeráid mar gheall ar bhrúchtadh bolcánach.

_____

_____

_____

_____

_____

_____ [4]

(ii) Maidir le tír ainmnithe a ndearna tú staidéar uirthi, cuir síos ar éifeacht dhearfach **amháin** agus ar éifeacht dhiúltach **amháin** mar gheall ar athrú aeráide.

Tír _____ [1]

Éifeacht dhearfach

_____

_____

_____ [2]

Éifeacht dhiúltach

_____

_____

_____ [2]

www.xtrapapers.com

Téama C: An Domhan Míshocair

Scrúdaitheoir Amháin	
Marcanna	Athmharc

3 **(a)** Déan staidéar ar **Tábla 4** ina bhfuil faisnéis faoi 3 charraig. Freagair na ceisteanna a leanann.

Tábla 4

Grianghraf den charraig	Buntréithe na carraige	Ainm na carraige
	Uigeacht gharbh, bruthcharraig chrua bhreac.	
	Carraig dhríodair measartha crua atá garbh le breith uirthi.	gaineamhchloch
	Carraig mheiteamorfach dhúliath a scoilteann na cisil aici go furasta.	

© Bureau of Economic Geology, Jackson School. The University of Texas at Austin
© Bureau of Economic Geology, Jackson School. The University of Texas at Austin
Copyright © Province of British Columbia. All rights reserved. Reprinted with the permission of the Province of British Columbia. www.ipp.gov.bc.ca

(i) Comhlánaigh **Tábla 4** trí ainmneacha carraigeacha a ndearna tú staidéar orthu a scríobh ann. [2]

Roghnaigh do fhreagraí ón liosta thíos

marmar **slinn** **eibhear** **basalt**

(ii) Roghnaigh **ceann amháin** de na carraigeacha in **Tábla 4** agus mínigh cad é mar a foirmíodh í.

_____

_____

_____

_____

_____ [3]

www.xtrapapers.com

(b) Cuir na ráitis thíos in ord lena léiriú cad é mar a bhíonn ardchlár laibhe á fhoirmiú. Tá ceann amháin acu comhlánaithe.

Bíonn laibhe ag doirteadh amach trí scoilteáin.	
Tagann magma aníos go screamh an Domhain mar gheall ar bhrú.	
Tarlaíonn síonchaitheamh feadh imill an ardchláir, rud a dhéanann é a laghdú le himeacht aimsire.	4
Fuaraíonn an laibhe agus bíonn ardchlár leathan leactha basailt ann.	

[3]

Scrúdaitheoir Amháin	
Marcanna	Athmharc

www.xtrapapers.com

Scrúdaitheoir Amháin	
Marcanna	Athmharc

(c) Déan staidéar ar **Fíor 10** a thugann faisnéis faoin chrith talún a chuaigh i bhfeidhm ar Háití in 2010. Freagair na ceisteanna a leanann.

Ní Raibh Crith Talún Háití gan choinne.

T

Fuair beagnach 200 000 duine b§s agus bh² scrios forleathan ann nuair a bhuail crith tal¼n dar m®id 7 H§it², t²r i mb®al forbartha (LEDC) ar 12 Ean§ir 2010.
Tharla an crith tal¼n §it a mb²onn dh§ phl§ta theicteonacha ag sleamhn¼thart lena ch®ile.

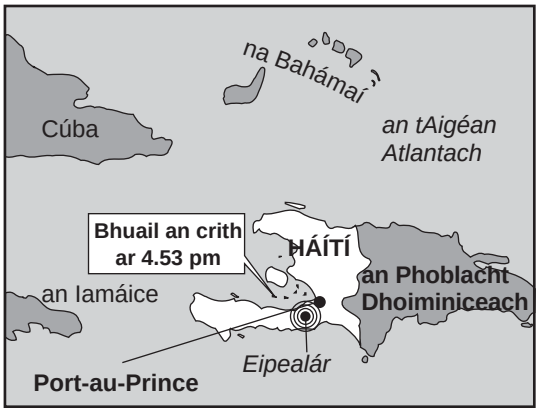

Fíor 10

(i) Ainmnigh an grúpa oileán ó thuaidh ó Háití.

_____ [1]

(ii) Cuir líne faoin chineál imeall pláta atá suite i ngar do Port-au-Prince.

Tógála **Scriosach** **Imchoimeádach** [1]

(iii) Luaigh ciall an téarma **crith talún**.

_____

_____

_____ [2]

(iv) Luaigh **dhá** fháth a bhfuair an oiread sin daoine bás mar gheall ar an chrith talún i Háití.

_____

_____

_____ [2]

www.xtrapapers.com

Scrúdaitheoir Amháin	
Marcanna	Athmharc

(v) Mínigh cad chuige a mbíonn plátaí ag gluaiseacht.

_____

_____

_____

_____

_____

_____ [4]

(d) Cuir síos ar an chúis agus ar **dhá** iarmhairt a bhí le crith talún a tharla in Éirinn nó sa Bhreatain Mhór agus a ndearna tú staidéar air.

Suíomh an chreatha talún in Éirinn nó sa Bhreatain Mhór

_____ [1]

Cúis leis an chrith talún

_____

_____

_____ [2]

Iarmhairtí

_____

_____

_____

_____

_____

_____ [4]

SEO DEIREADH AN SCRÚDPHÁIPÉIR

www.xtrapapers.com

Cuireadh isteach ar chead chun an t-ábhar cóipchirt uile a atáirgeadh.
I gcásanna áirithe is féidir nár éirigh le CCEA teagmháil a dhéanamh le húinéirí cóipchirt agus beidh sé sásta na hadmhálacha sin a fágadh ar lár a chur ina gceart amach anseo ach é a chur ar an eolas.